ACADEMIA MILITAR GENERAL TOMAS CIPRIANO DE MOSQUERA “PATRIA-CIENCIA-LEALTAD” AÑO LECTIVO 2020	
GRADO: 1	**ASIGNATURA:** geometría y estadística.
FECHA DE RECIBIDO: 18 de marzo de 2020	**FECHA DE ENTREGA:** 24 de marzo de 2020
TEMAS: izquierda, derecha, formas de los objetos, arriba, abajo y figuras geométricas. Tablas de conteo.	
CRITERIOS DE ENTREGA: el estudiante debe realizar el taller enviado a continuación con letra clara y ordenada. Una vez desarrollado, pedir el favor al padre de familia tomar una foto y enviarla al correo: profeleidyortiz@gmail.com En el correo se debe especificar el nombre completo del estudiante y el grado que está cursando, adicional a ello la asignatura. Los días jueves 19 y 20 de marzo, en horario de 8:00 am-12:00pm estaré atenta a sus inquietudes, enviar dudas al correo profeleidyortiz@gmail.com	

ACADEMIA MILITAR GENERAL TOMÁS CIPRIANO DE MOSQUERA	**TALLER** GRADO 1° **ESTADÍSTICA Y GEOMETRÍA** PRIMER PERÍODO	AÑO LECTIVO **2020** FECHA **18 marzo**	DOCENTE **LEIDY JOHANA ORTIZ**
NOMBRE:		**CALIFICACIÓN:**	

1. Cuenta el número de manzanas que hay de cada color. Luego, en la tabla pinta (de forma vertical) por cada manzana un cuadro.



10				
9				
8				
7				
6				
5				
4				
3				
2				
1				

2. Diego realiza una encuesta a sus amigos y les pregunta por sus animales preferidos. De acuerdo a los resultados, responde:

IIIII	IIIIIII	III	IIIII	IIII

a. ¿Cuál es el animal favorito? _____

b. ¿Cuántos prefieren al caballo? _____

c. ¿Cuál es el animal que menos les gusta? _____

3. Une con una línea el objeto que se parece a cada figura geométrica, luego colorea.

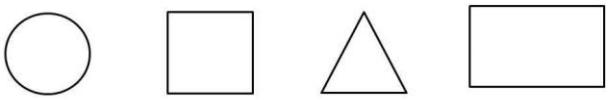



4. Colorea de rojo las manzanas que están **ARRIBA** y de amarillo las manzanas que están **ABAJO**.



5. Colorea de rojo los animales que están **delante** del árbol y de azul los que están **detrás**.



6. Une los puntos y descubre la figura, luego colorea.

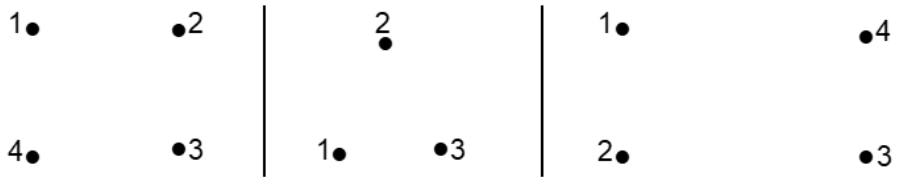

7. Colorea las flechas según su dirección: izquierda y derecha.

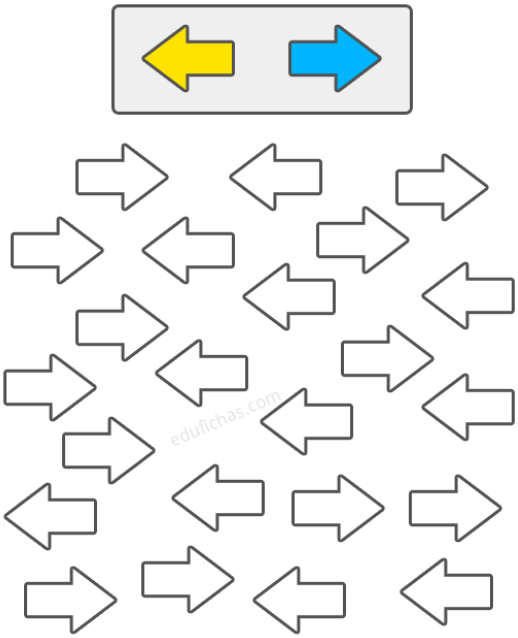

8. Pinta cada figura geométrica de acuerdo al color que se indica.
Rectángulo-**Azul**
Cuadrado-**Rojo**
Triángulo-**Verde**



9. Usando las figuras geométricas crea un dibujo.